Вежба1 за основне елементе коцке

1. 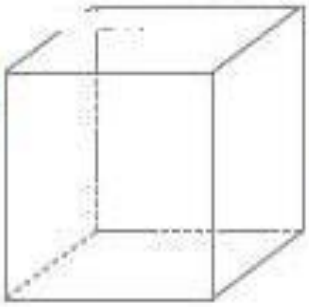

Темена коцке означи плавом бојом. Колико темена има коцка?

_____

2. 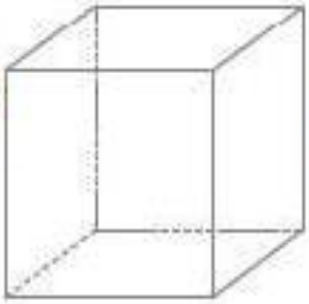

Ивице коцке подебљај црвеном бојом. Колико ивица има коцка?

_____

3. 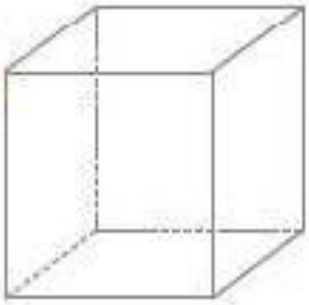

Три стране коцке обој различитим бојама. Колико страна има коцка?

_____

Колико је различитих боја потребно да обојиш све стране коцке?

_____

4. 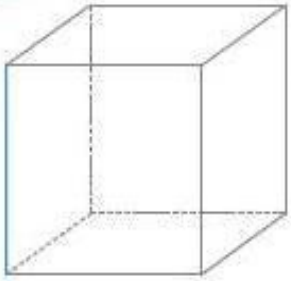

Означи темена коцке. Све ивице које имају једнаку дужину као обојена ивица подебљај плавом бојом.

5. Стране коцке обој жуто, темена означи црвено, а ивице подебљај плавом бојом.

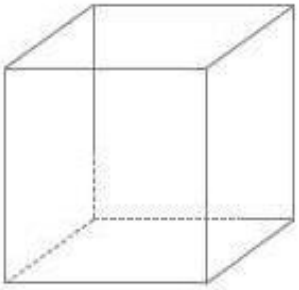

6. Марко је пишући састав о коцки неке речи и слова избрисао.

Допуни избрисано.

Коцка је _____ тело које има _____ темена, 12 _____

и _____ страна.

Стране коцке су _____.

Све ивице коцке једнаке _____.

Коцка је кв_ _ _ _ коме су све ивице једнаке.